GEOGRAPHIE

3G2

Les espaces productifs français et leurs évolutions

	FICHE D'OBJECTIFS	3G2 **Les espaces productifs et leurs évolutions**

A la fin de ce chapitre et pour réussir lors de l'évaluation :

Ce que je dois connaître :

- **le vocabulaire spécifique**.

- **les différents types d'espaces productifs**.

- **savoir situer repères géographiques suivants** (*sur une carte)* :

✓ les anciennes régions industrielles.
✓ les nouveaux espaces industriels dynamiques.
✓ les 4 grandes régions de l'agriculture productiviste.
✓ les principales régions touristiques.

- **Dans un développement construit, je dois pouvoir** :

✓ **décrire** un espace productif (soit industriel, soit touristique, soit agricole) et **expliquer** ses évolutions.

✓ **expliquer** les évolutions / mutations des espaces productifs en France.

Ce que je dois savoir faire :

- **étudier un document :**

↳ je suis capable de :

✓ présenter un document (*voir fiche méthode*)
✓ en comprendre le sens général
✓ en extraire des informations pertinentes pour répondre à des questions
✓ l'expliquer à l'aide de mes connaissances

- **se repérer dans l'espace** *(sur une carte)*.

- **utiliser le langage cartographique** (*voir fiche méthode*) pour compléter un schéma et un croquis.

- **réaliser un croquis simplifié.**

- **rédiger un développement construit** :

✓ rédiger une introduction complète
✓ rédiger un texte qui répond à un sujet donné.

Bonnes révisions !

2

Vocabulaire à maîtriser

(Pense à chercher les définitions manquantes **dans le lexique de ton manuel** et **recopie-les** en rouge.)

Agriculture productiviste :

Désindustrialisation :

Espace productif :

Filière agro-alimentaire :

Industrie :

Métropole *(géo)* :

Services :

Technopôle : parc d'activités associant entreprises de haute technologie et grandes écoles.

Tertiarisation : transformation de l'économie vers des activités de service et de recherche.

INTRODUCTION - Les activités économiques

Traditionnellement, en France, division des activités économiques en 3 secteurs :

- secteur agricole (ou primaire) : secteur économique qui exploite les ressources naturelles. Il regroupe les activités liées à l'agriculture, la pêche et la forêt.

- secteur industriel (ou secondaire) : secteur économique regroupant les activités industrielles (qui transforment les matières premières), la construction des bâtiments et les travaux publics (BTP).

- secteur des services (ou tertiaire) : secteur économique regroupant les activités de services, c'est-à-dire qui ne produisent pas de biens matériel (commerce, santé, loisirs, éducation …) et de recherche.

Toutefois, aujourd'hui, la frontière entre ces différents secteurs a tendance à s'effacer, ils sont dépendants les uns des autres.

Problématique :

Comment les activités économiques se répartissent-elles sur le territoire français ?

Comment expliquer cette répartition?

I. Etudes de cas

Consignes

ETAPE 1 – Etude documentaire – EN AUTONOMIE

Chacun travaille sur un type d'espace productif.

ETAPE 2 – Mise en commun

Présentation de son étude de cas aux camarades de l'équipe.

ETAPE 3 – Mise en perspective

Echange d'espace productif

Mise en perspective entre l'étude de cas et la situation de la France.

Etape 4 – Croquis

Echange d'espace productif.

A l'aide des informations relevées par le camarade, réaliser un croquis de la répartition des espaces productifs en France.

AP – Méthode

Utiliser le langage cartographique pour réaliser un croquis

Consignes

A l'aide du cours, réalise le croquis simplifié de la répartition des espaces agricoles ou industriels ou de services sur le territoire français.

Piste verte et rouge : suis les consignes du polycopié distribué par le professeur.

Piste noire :

1. Trace un fond de croquis sur ton cahier.
2. A l'aide de la mise en perspective, construis la légende.
3. Complète ton croquis.

II. Les dynamiques des espaces productifs français

A. Comment évoluent les espaces productifs agricoles en France?

7

Des espaces agricoles spécialisés mais inégalement intégrés

France = 1re puissance agricole de l'Union européenne

L'agriculture et les industries agro-alimentaire produisent 1,8% de la richesse nationale. Le secteur agricole emploie moins de 2% de la population active.

- agriculture française modernisée depuis années 1960 grâce à la **PAC** :

développement de la mécanisation, utilisation d'engrais et de pesticides, recours à l'irrigation => augmentation des rendements = **agriculture productiviste** .

- Spécialisation des espaces agricoles => monoculture (ex : céréales dans le Bassin parisien, élevage en Bretagne, cultures maraîchères dans les régions méditerranéennes) ≠ certaines régions françaises peu adaptées à la concurrence mondiale (= régions d'élevage extensif, de polyculture, en moyenne montagne notamment) sont en déprise agricole.
- espaces agricoles = intégrés à la **filière agro-alimentaire** (= 1er secteur industriel de France) , elle-même très intégrée dans la mondialisation.

- MAIS conséquences négatives de l'agriculture productiviste : pollution des eaux et des sols, problèmes sanitaires (épidémies dans les élevages...) => nombreux agriculteurs se tournent vers agriculture biologique, privilégiant la qualité à la quantité.

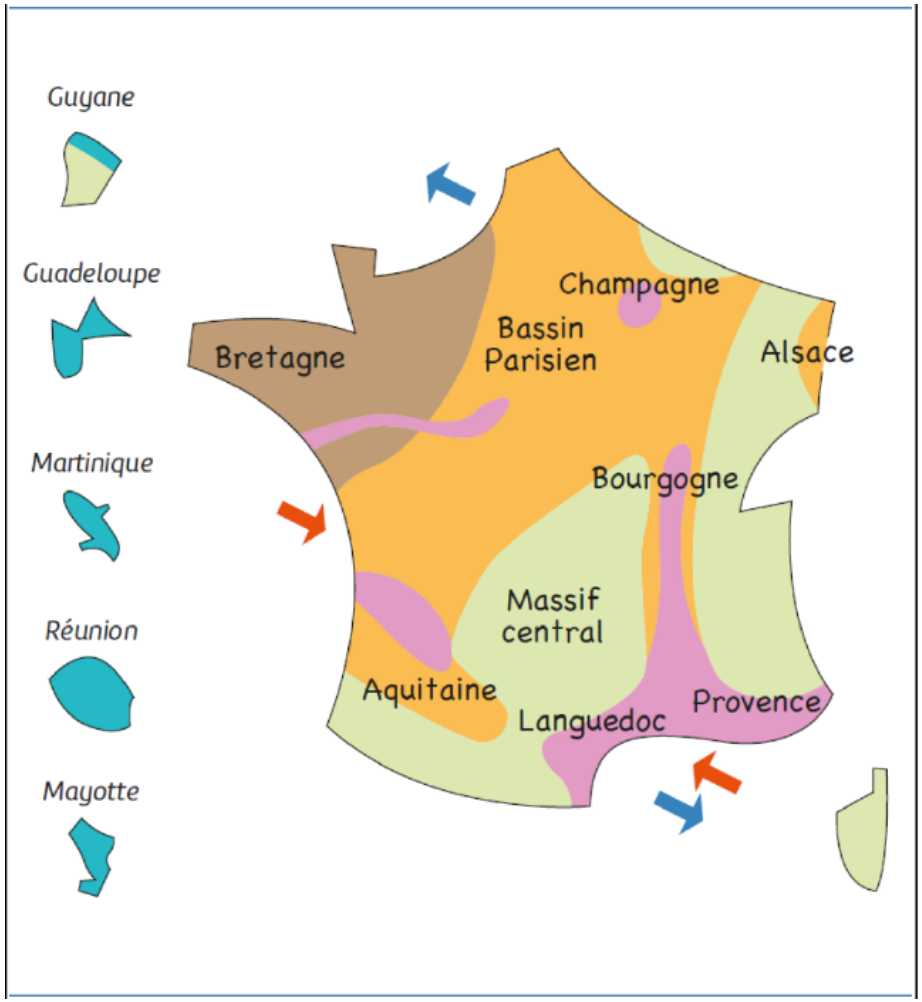

Grandes cultures productives

Cultures spécialisées

Élevage intensif

Polyculture et élevage peu productif

Exportations

Importations

B. Comment évoluent les espaces productifs industriels en France?

9

Les nouveaux territoires de l'industrie

France = 4e puissance industrielle européenne / 8e rang mondial

MAIS touchée par la **désindustrialisation**.

Le secteur industriel emploie 13% de la population active (contre 40% en 1968) et produit 19% de la richesse nationale.

- la mondialisation entraine des changements de localisation des activités industrielles :

  - industries traditionnelles du Nord et de l'Est (fondées sur l'exploitation des matières premières : charbon, fer …) = en crise (fermeture usines, pertes d'emplois...) MAIS aujourd'hui, certains territoires = en reconversion : de nouvelles industries (de haute technologie) s'y installent ;

  - apparition de nouvelles régions industrielles (Sud et ouest) attractives pour les industries de haute technologie (Ex : voir activité 1 sur Montpellier).

- partout en France, **métropoles** = très attractives pour industrie de haute technologie

car on y trouve une main-d'œuvre qualifiée, des réseaux de communication performants + **technopôles.**

- Littoraux = également attractifs car proximité des routes commerciales maritimes.

- soutenant l'innovation au sein de pôles de compétitivité, l'Etat joue un rôle majeur dans la répartition des nouvelles industries sur le territoire.
- MAIS conséquences négatives pour l'environnement : pollution de l'air ou de l'eau + risques industriels (ex : Lubrizol à Rouen).

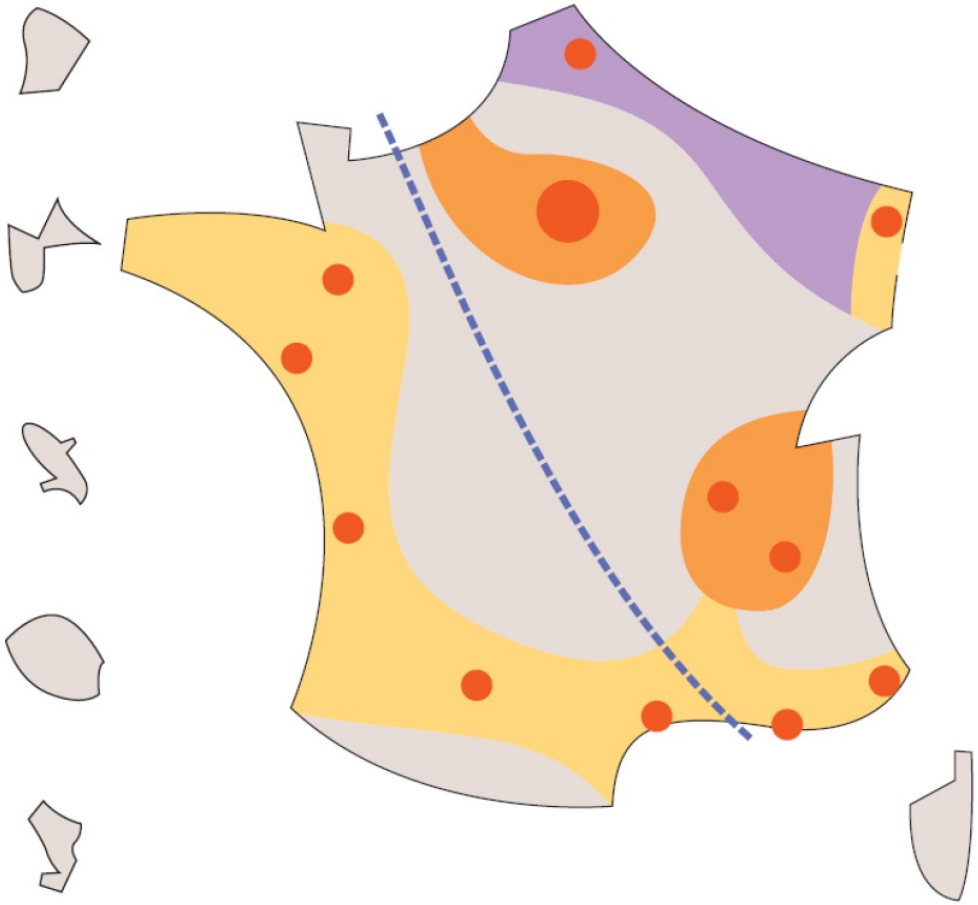

Métropoles attractives

Deux principales régions industrielle

Espaces dynamiques (hautes technologies)

Espaces peu industrialisés

Ancienne région industrielle

Une division industrielle qui s'efface

C. Comment évoluent les espaces productifs de services en France ?

Une forte concentration des services dans les métropoles

Le secteur des services emploie 78% de la population active et produit 80% de la richesse nationale.

- **tertiarisation** de l'économie française : vieillissement de la population, diminution du temps de travail => essor de sociétés fournissant des services dans les domaines de la santé, des loisirs, de la culture et du tourisme

- activités de services =

  - surtout concentrées dans les métropoles qui détiennent les fonctions de commandement et de décision,

  - également dans les lieux de tourisme de masse (tourisme balnéaire et de montagnes).

France = 1re puissance touristique mondiale

- France = 1er destination touristique mondiale grâce à son patrimoine culturel (monuments, musées, gastronomie, mode...) et à ses équipements de loisirs (Ex : voir activité 2 sur le parc Astérix).

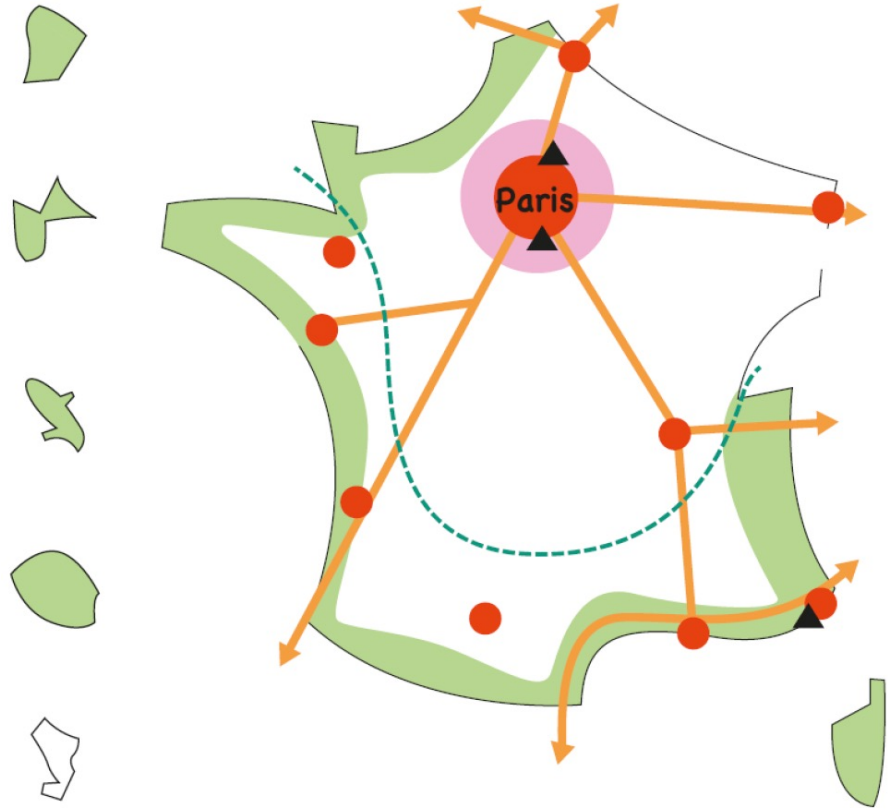

Pôles tertiaires

Espaces touristiques

Limites de l'attractivité des territoires du Sud et de l'Ouest

Aéroports internationaux

Axes de transports majeurs

CONCLUSION

La mondialisation a une grande influence sur la répartition des activités économiques sur le territoire français. Les espaces productifs sont en concurrence les uns avec les autres au niveau national et mondial. Seuls les territoires les plus intégrés sont les plus dynamiques.